اسئلة دورات اختبار العمارة

نموذج أسئلة امتحان دورة سابقة .

امتحان القبول في قسم العمارة العام الدراسي ١٩٨٣/١٩٨٤



وزارة التعليم العالـــــــــــي

امتحان القبول في قسم العمارة
مدة الامتحان : خمس ســـاعات

العام الدراسي
١٩٨٣ / ١٩٨٤

تمثل اللوحة أعلاه فراغ سكني تتعايش عليه مجموعة من المنازل .
المطلوب إعادة رسم هذه اللوحة بمقياس أكبر ، ويترك للطالب حرية تحديد المقياس المناسب للتكبير (مرة ـ مرة ونصف ـ مرتين ـ الخ) ، وكذلك طريقة الرسم (بالقلم الرصـــاص ـ بالحبر ـ بالألوان الخ) .

وزارة التعليم العالي
حان القبول فى كليات الهندسة المعمارية

العام الدراسي ١٩٨٤/١٩٨٥
مدة الامتحان : خمس ساعات

ب على السؤالين التاليين :

السؤال الأول : ويرسم في النصف العلوى من ورقة الاجابة وبالقلم الرصاص .

اللوحة الجانبية هي مثال لما يمكن تكوينه من خلال تكرار رسم مربع ومثلث بخطوط مستمرة .

المطلوب : تكوين لوحة جديدة باستعمال نفس طريقة الرسم (الخط المستمر) ونفس العناصر (المربع والمثلث) بالشكل والمقياس والعدد الذى يراه الطالب مناسبا .



السؤال الثاني : ويرسم في النصف السفلي من ورقة الاجابة وبالقلم الرصاص .



المطلوب : اعادة رسم اللوحة المنظورية أعلاه بمقياس أكبر ، ويترك للطالب حرية تحديد المقياس المناسب للتكبير .

وزارة التعليم العالي

قبول في كليات الهندسة المعمارية

العام الدراسي ١٩٨٥-١٩٨٦

مدة الامتحان : خمس ساعات

السؤالين التاليين :

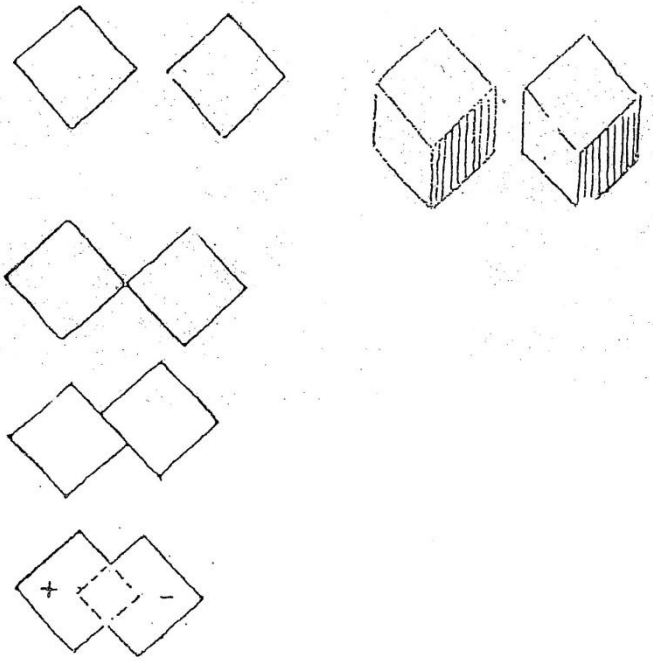

السؤال الاول : ويرسم في النصف العلوى من ورقة الاجابة و بالقلم الرصاص .

المربعان المتجاوران هما مسقط مكعبين متجاورين كما هو واضح في الحالة (٨) من اللوحة الجانبية .

المطلوب :

١ـ رسم المكعبات المطابقة للمربعات في الاوضاع (D, C, B)

٢ـ رسم المكعبين من مسقطيهما في ثلاثة اوضاع اخرى غير المذكورة سابقا .



السؤال الثاني : ويرسم في النصف السفلي من ورقة الاجابة و بالقلم الرصاص .

تمثل اللوحة احدى حارات مدننا القديمة ، و المطلوب اعادة رسم هذه اللوحة بمقياس اكبر واخراجها بالظلال والاشخاص و الاشجار و الخ ....

وزارة التعليم العالي — العام الدراسي ١٩٨٦/ ١٩٨٧

امتحان القبول في كليات الهندسة المعمارية — مدة الامتحان : ست ساعات

السؤال الاول : المدة ساعتان . ويرسم على الصفحة الاولى من ورقة الاجابة .
ارسم الشكل الموضوع امامك بالاسلوب الذى تراه مناسبا .

السؤال الثاني : المدة ساعتان . ويرسم على الصفحة الثانية من ورقة الاجابة .
يمثل الشكل المنظوري المرسوم الخطوط المحيطية لبناء مؤلف من كتلتين
هما : الكتلة الافقية بارتفاع ثلاثة طوابق وتعلوها قبة : الكتلة الشاقولية
بارتفاع عشر طوابق .

المطلوب : تكبير الشكل واظهار الواجهات ورسم
ما يلزم من نوافذ وشرفات ومداخل وغيرها ثم تظليل
المبنى ومعالجة الطبيعة المحيطة به كالاشجار
والحدائق والطرقات والسيارات والاشخاص .

السؤال الثالث : المدة ساعة ونصف . ويرسم على الصفحة الثالثة من ورقة الاجابة .
أرسم من ذاكرتك احد المباني العامة الموجودة في مدينتك والتي تركت في نفسك انطباعا معماريا
مميزا . (يترك للطالب حرية اختيار الاسلوب في الرسم كأن يرسم واجهة او اكثر للمبنى او واجهة ومسقط او واجهة
منظورية الخ ..) . ثم اكتب في اسفل الصفحة بما لا يزيد عن خمسة اسطر واصفا هذا المبنى .

السؤال الرابع : المدة نصف ساعة . ويكتب على الصفحة الرابعة من ورقة الاجابة .
ابحث عن الاشكال ذات الاحرف والتي تتطابق مع الاشكال ذات الارقام ، بحيث تكون شكلا هندسيا
مغلقا . (متوازي مستطيلات او موشور الخ ...) واكتب النتيجة على الصفحة الرابعة كما يلي :

الشكل ذو الرقم ١ يطابقه الشكل ذو الحرف ..
" " " " " " ..
الشكل ذو الرقم ٨ يطابقه الشكل ذو الحرف ..

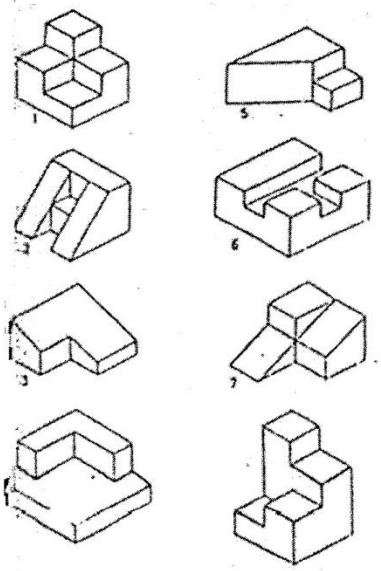

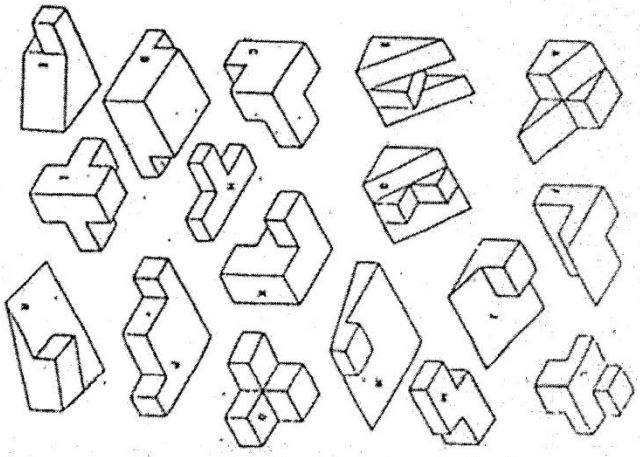

السؤال الاول

المدة ساعتان : ويرسم على النصف العلوى من الصفحة الاولى من ورقة الاجابة •
ارسم الشكل الموضوع امامك بالاسلوب الذى تراه مناسبا •

السؤال الثاني

المدة ساعة : ويرسم على النصف السفلي من الصفحة الاولى من ورقة الاجابة •

يمثل الشكل المرسوم في الصورة ب مثال لاحد الاحتمالات التي يمكن ان تنشأ عن تقاطع الحجمين المرسومين في الصورة آ •
المطلوب : رسم شكل اخر لتقاطع الحجمين •

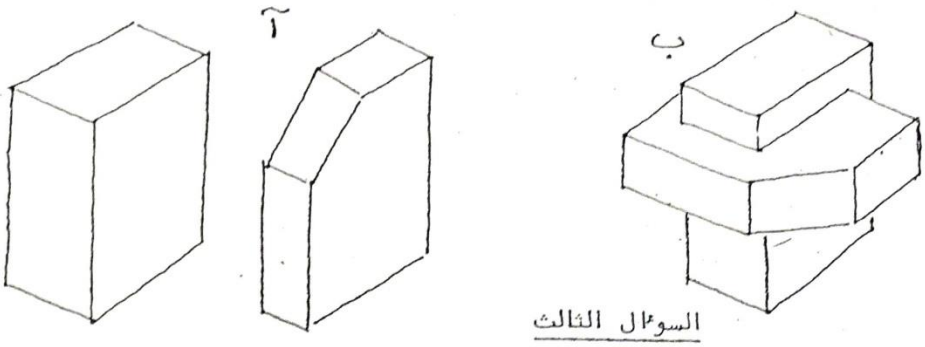

السؤال الثالث

المدة ساعتان : ويرسم على كامل الصفحة الثانية من ورقة الاجابة •
تمثل اللوحة المنظورية المرسومة ادناه الساحة الداخلية لاحد المباني العامة •
المطلوب : اعادة رسم اللوحة بالطريقة التي يراها الطالب مناسبة بعد تكبيرها وتظليلها واخراجها بالاشخاص والاشجار •



وزارة التعليم العالي

امتحان القبول في كليات الهندسة المعمارية

العام الدراسي : ١٩٨٨ - ١٩٨٩

مدة الامتحان : خمس ساعات

الاول (المدة : ساعتان)

يرسم على النصف العلوي من الصفحة الاولى من ورقة الاجابة

ارسم الشكل الموضوع امامك بالاسلوب الذي تراه مناسبا

الثاني (المدة - ساعة) :

يرسم على النصف السفلي من الصفحة الاولى من ورقة الاجابة .

يتألف عناصر التكوين المرسوم في الصورة / ب / من الاجزاء الخمسة لدوائر مختلفة المساحات والمرسومة في الصورة / آ / .

المطلوب :

تكوين اخر بخمسة اجزاء من دوائر مختلفة المساحات بتوسيعها على الورقة بالشكل المناسب .





الثالث (المدة - ساعتان)

يرسم على كامل الصفحة الثانية من ورقة الاجابة .

تمثل اللوحة المنظورية المرسومة الى جانبه احدى طرق مدننا القديمة .

المطلوب :

اعادة رسم اللوحة بالطريقة التي يراها الطالب مناسبة لتكسرها وتظليلها واخراجها بالاشخاص الاشجار وغيرها ...



التعليم العالي

جان القبول في كليات الهندسة المعمارية

العام الدراسي : ١٩٩٠ - ١٩٩١

مدة الامتحان : خمس ساعات

ملاحظـــــة :

على الطلاب الشبيبين وابناء اعضاء الهيئة التدريسية وذوى الشهداء ، وضع كلمة شبيبي او ابن عضو هيئة تدريسية او ابن شهيد تحت المكان المخصص للاسم والرقم في الزاوية العليا من الورقة

السؤال الاول (المدة ساعتـــان) :

ويرسم على النصف العلوى من ورقة الاجابة

ارسم الشكل الموضوع امامك بالاسلوب الذى تراه مناسبا .

السؤال الثاني (المدة ثلاث ساعـــات) :

ويرسم على النصف السفلي من ورقة الاجابة

المطـــلوب :

- اعادة رسم اللوحة بالطريقة التي يراها الطالب مناسبة بعد تكبيرها وتظليلها واخراجها بالاشخاص والاشجار وغيرها .

وزارة التعليم العالي

امتحان القبول في كليات الهندسة المعمارية

العام الدراسي : ١٩٩١ ـ ١٩٩٢

المدة : خمس ساعات

تعليمات :

ان الطلاب الشهيدين وابناء اعضاء الهيئة التدريسية وابناء الشهداء ، وضع كلمة شهيد او ابن عضو هيئة تدريسية او ابن شهيد تحت المكان المخصص للاسم والرقم في الزاوية العليا من الورقة .

السؤال الاول : المدة ساعتان :

يرسم على النصف العلوي من ورقة الاجابة

ارسم الشكل الموضوع امامك بالاسلوب الذي تراه مناسبا .

السؤال الثاني : المدة ثلاث ساعات

تمثل اللوحة حيز عمراني سكني محاط بعدد من الابنية المتناظرة .

المطلوب : اعادة رسم اللوحة بالطريقة التي يراها الطالب مناسبة .

وزارة التعليم العالـــي

امتحان القبول في كليات الهندسة المعمارية

العام الدراسي ١٩٩٢ – ١٩٩٣

المدة : خمس ساعـــات

السؤال الاول : المدة ساعتان

يرسم على النصف العلوى من ورقة الاجابة

ارسم الشكل الموضوع امامك بالاسلوب الذى تراه مناسبا

سؤال الثاني : المدة ثلاث ساعات

يرسم على النصف السفلي من ورقة الاجابة

مطلوب : اعادة رسم اللوحة بالطريقة التي يراها الطالب مناسبة

وزارة التعليم العالي

لجان القبول في كليات الهندسة المعمارية

العام الدراسي ١٩٩٤-١٩٩٥

المدة : خمس ساعات

ملاحظة :

على كل طالب تدوين اسمه ورقمه بالقلم الحبر تحت المثلث الأسود في الزاوية العليا من الورقة .

السؤال الأول : المدة ساعتان :

ويرسم على النصف العلوي من ورقة الاجابة .

أرسم الشكل الموضوع أمامك بالاسلوب الذي تراه مناسبا .

السؤال الثاني: المدة ثلاث ساعات:

ويرسم على النصف السفلي من ورقة الاجابة .

المطلوب : اعادة رسم اللوحة بالطريقة التي يراها الطالب مناسبة



وزارة التعليم العالي
امتحان القبول في كليات الهندسة المعمارية

العام الدراسي ١٩٩٦-١٩٩٧
المدة : خمس ساعات

ملاحظة:
على كل طالب تدوين اسمه ورقمه بالقلم الحبر تحت المثلث الاسود في الزاوية العليا من الورقة

السؤال الاول: المدة ساعتان:

ويرسم على النصف العلوي من الورقة.
لرسم الشكل الموضوع أمامك بالأسلوب الذي تراه مناسبا.

السؤال الثاني: المدة ثلاث ساعات:

ويرسم على النصف السفلي من ورقة الاجابة.
المطلوب اعادة رسم اللوحة بالطريقة التي يراها الطالب مناسبة.



وزارة التعليم العالي

العام الدراسي ١٩٩٨-١٩٩٩

امتحان القبول في كليات الهندسة المعمارية

مدة الأمتحان : خمس ساعات

ملاحظة : على كل طالب تدوين اسمه ورقمه بالقلم الحبر تحت المثلث الأسود في الزاوية العليا من الورقة .

السؤال الأول : المدة ساعتان :

ويرسم على النصف العلوي من الورقة .

ارسم الشكل الموضوع أمامك بالأسلوب الذي تراه مناسبا .

السؤال الثاني : المدة ثلاث ساعات :

ويرسم على النصف السفلي من الورقة .

المطلوب أعادة رسم اللوحة وتكبيرها بالطريقة التي يراها الطالب مناسبة .



وزارة التعليم العالي
امتحان القبول في كليات الهندسة المعمارية

العام الدراسي ١٩٩٩-٢٠٠٠
مدة الامتحان : خمس ساعات

ملاحظة : على الطلاب الشبيبين وأبناء أعضاء الهيئة التدريسية وذوي الشهداء ، وضع كلمة شبيبي أو أبناء أعضاء هيئة تدريسية أو ابن شهيد تحت المكان المخصص للاسم والرقم في الزاوية العليا من الورقة .

السؤال الأول (المدة ساعتان):
ويرسم على النصف العلوي من ورقة الإجابة .
- ارسم الشكل الموضوع أمامك بالأسلوب الذي تراه مناسبا .

السؤال الثاني (المدة ثلاث ساعات):
ويرسم على النصف السفلي من ورقة الإجابة .
المطلوب:
- إعادة رسم اللوحة بالطريقة التي يراها الطالب مناسبة بعد تكبيرها وتظليلها وإخراجها بالأشخاص والأشجار وغيرها .



الجمهورية العربية السورية
وزارة التعليم العالي

العام الدراسي ٢٠٠٠/٢٠٠١
المدة الزمنية :خمس ساعات

امتحان القبول في كليات الهندسة المعمارية

ملاحظة : على الطلاب الشبين وأبناء أعضاء الهيئة التدريسية وأبناء الشهداء وضع كلمة شبين أو ابن عضو هيئة تدريسية أو اسم شهيد جانب المكان المخصص للاسم والرقم في الزاوية العليا من الورقة .

السؤال الاول : المدة ساعتان (يرسم على النصف العلوي من الورقة) .

المطلوب : رسم الشكل الموضوع أمام الطالب بالأسلوب الذي يراه مناسبا .

السؤال الثاني :المدة ثلاث ساعات (يرسم على النصف السفلي من الورقة) .

المطلوب : إعادة رسم اللوحة بعد تكبيرها واخراجها بالطريقة التي يراها الطالب مناسبة .

الجمهورية العربية السورية

وزارة التعـــليم العـــالي

المدة الزمنية أربع ساعات

٢٠٠١ ـ ٢٠٠٢

امتحان القبول في كليات الهندسة المعمارية

(المرحلة الثانية)

ملاحظة : على الطلاب الشبيبين وأبناء أعضاء الهيئة التدريسية وأبناء الشهداء وضع كلمة شبيبي أو ابن عضو هيئة تدريسية أو ابن شهيد جانب المكان المخصص للاسم والرقم في الزاوية العليا من الورقة.

السؤال الأول :

آ ـ ضمن مربع أبعاده ١٢ × ١٢ سم يطلب إيجاد تكوين من خطوط منحنية فقط .

ب ـ ضمن مربع أبعاده ١٢ × ١٢ سم أرسم حجمين متداخلين (للطالب حرية اختيار الحجوم : مكعب ـ هرم ـ كرة ـ مخروط ... الخ)

السؤال الثاني :

على الطالب إعادة رسم الشكل المبين بعد تكبيره وإخراجه بالطريقة التي يراها مناسبة .

الجمهورية العربية السورية
وزارة التعليم العالي

المدة الزمنية أربع ساعات
٢٠٠٢ ـ ٢٠٠٣

امتحان القبول في كليات الهندسة المعمارية
(المرحلة الثانية)

السؤال الأول: أرسم تكويناً مؤلفاً من ثلاثة حجوم هي (متوازي مستطيلات – مكعب –أسطوانة) على أن يكون إثنان منها على الأقل متداخلان وذلك ضمن مربع أبعاده (٢٥ في ٢٥ سم) .

السؤال الثاني: على الطالب إعادة رسم الشكل المبين بعد تكبيره وإخراجه بالطريقة التي يراها مناسبة .

ملاحظة: كل ورقة تحمل إشارة ليس لها علاقة بالموضوع تستبعد من التحكيم ، وتوضع جميع الأسماء وصفاتها (إبن عضو هيئة تدريسية -أبناء شهداء – شبيبي- تعليم موازي) في الزاوية المخصصة لمكان الاسم والتي سيتم إغلاقها.



وزارة التعليم العالي

2004 /8/26

امتحان القبول في كليات الهندسة المعمارية
(المرحلة الثانية)

السؤال الأول: اختر وحدة حجمية (مكعب- متوازي المستطيلات- كرة-الخ) وشكل منها تكوينا حجميا جميلا ضمن شكلين (مربع طول ضلعه 5 إسم ومثلث متساوي الأضلاع طول ضلعه 5 إسم)
يترك للطالب حرية اختيار عدد الوحدات المتكررة لكل شكل على أن لا تقل عن ثلاثة

السؤال الثاني: على الطالب إعادة رسم الشكل المبين (منظور داخلي لخان أسعد باشا بدمشق) بعد تكبيره مرتين وإخراجه بالطريقة التي يراها مناسبة .

ملاحظة: كل ورقة تحمل إشارة ليس لها علاقة بالموضوع تستبعد من التحكيم، وتوضع جميع الأسماء وصفاتها (ابن عضو هيئة تدريسية-أبناء شهداء شبيبي-تعليم موازي) في الزاوية المخصصة لمكان الاسم والتي سيتم إغلاقها.



الجمهورية العربية السورية
وزارة التعليـــم العالـــي

المدة الزمنية: أربع ساعات
21 آب 2005

امتحان المرحلة الثانية

للقبول في كليات الهندسة المعمارية

يبيّن الرسم السريع المبسّط زاوية في باحة لأحد البيوت العربية التقليدية. المطلوب إعادة رسم الشكل ضمن حيّز أبعاده (30/30) سم تقريباً، (وهو عادل لضعف الصورة المبيّنة) واستكماله، وإظهاره بالشكل الفني المناسب مع الاستعانة ببعض عناصر العمارة العربية التقليدية الداخلية (بركة ماء، عريشة، دوالي، مشربية...الخ)!

ملاحظـــة:

1) تُكتب الأسماء وصفاتها (إبن عضو هيئة تدريسية، إبن شهيد، شبيبي، تعليم موازي) في الزاوية المخصّصة والتي سيتم إغلاقها.

2) كل ورقة تحمل إشارة لنسب لها علاقة بالموضوع تُستبعد من التحكيم قطعاً!

الجمهورية العربية السورية
وزارة التعليم العالي

العام الدراسي 2007/2006
المدة 4 ساعات

امتحان القبول في كليات الهندسة المعمارية

المطلوب إعادة رسم هذه اللوحة بالطريقة التي يراها الطالب مناسبة، بعد تكبيرها، وإكمال نوافذها وأبوابها، وتظليلها، وإخراجها بالأشخاص، والنباتات، وبعناصر العمارة الصغيرة (كمقعد استراحة، بركة ماء، حوض زهور، .....الخ).

ملاحظة هامة:

- كل ورقة تحمل أية إشارة ليس لها علاقة بالموضوع تستبعد من التحكيم قطعاً!
- يُكتب الإسم في الزاوية المخصصة التي سيتم إغلاقها!
- يتم كامل العمل بقلم الرصاص فقط!



الجمهورية العربية السورية
وزارة التعليم العالي

المدة الزمنية : اربع ساعات
للعام الدراسي ٢٠٠٧ ـ ٢٠٠٨

امتحان القبول في كليات الهندسة المعمارية

السؤال :

على الطالب إعادة رسم الشكل المبين بعد تكبيره وإخراجه بالطريقة التي يراها مناسبة .

ملاحظة كل ورقة تحمل إشارة ليس لها علاقة بالموضوع تستبعد من التحكيم ، وتوضع جميع الأسماء وصفاتها (ابن عضو هيئة تدريسية – أبناء شهداء – شبيبي – تعليم موازي) في الزاوية المخصصة لمكان الاسم والتي سيتم إغلاقها .

2009-2008

2010-2009

2011-2010

2012-2011

الجمهورية العربية السورية
وزارة التعليم العالي

العام الدراسي 2012- 2013
المدة: 3.30 ساعة

امتحان القبول في كليات الهندسة المعمارية

السؤال الأول: (35 درجة)

أرسم الشكل الموضوع أمامك بالطريقة التي تراها مناسبة.

السؤال الثاني: (35 درجة)

أعد رسم الصورة التي أمامك وذلك بتكبيرها وإظهارها وفق ما تراه مناسب وبأسلوبك الخاص



السؤال الثالث: (30 درجة)

أرسم موقف باص من مدينتك أو قريتك من وحي ذاكرتك.

الجمهورية العربية السورية
وزارة التعليم العالي

العام الدراسي 2013- 2014
المدة :4 ساعات

امتحان القبول في كليات الهندسة المعمارية

السؤال الأول: (35 درجة)

أرسم الشكل الموضوع أمامك بالطريقة التي تراها مناسبة.

السؤال الثاني: (35 درجة)

أعد رسم الصورة التي أمامك وذلك بتكبيرها وإظهارها وفق ما تراه مناسباً وبأسلوبك الخاص.



السؤال الثالث: (30 درجة)

أرسم بالاعتماد على ذاكرتك مقعد صادفته في حديقة عامة أو رأيته في أحد الكتب.

ملاحظة: تقسم اللوحة إلى ثلاثة أقسام ويتم رسم كل سؤال في قسمه.

==========

انتهت الأسئلة

مع التمنيات بالنجاح والتوفيق

الجمهورية العربية السورية
وزارة التعليم العالي

العام الدراسي ٢٠١٤- ٢٠١٥
المدة :٤ ساعات

امتحان القبول في كليات الهندسة المعمارية

السؤال الأول: (٣٥ درجة)

أرسم الشكل الموضوع أمامك بالطريقة التي تراها مناسبة، مع ضرورة إظهار تأثير الظل والنور وفقاً لموقعك.

السؤال الثاني: (٣٥ درجة)

أعد رسم الصورة التي أمامك وذلك بتكبيرها وإظهارها وفق ما تراه مناسباً وبأسلوبك الخاص، مع ضرورة إظهار تأثير الظل والنور على الأسطح بواسطة التهشير وتدرجات اللون (الرمادي) مستخدماً قلم الرصاص، مع إمكانية إضافة بعض العناصر الطبيعية كالأشجار والنباتات وغير ذلك.

السؤال الثالث: (٣٠ درجة)

أرسم بالاعتماد على ذاكرتك باب لمدخل بنائك أو لمدخل منزلك.

ملاحظة:

- تقسم اللوحة إلى ثلاثة أقسام ويتم رسم كل سؤال في قسمه.
- **يمنع وضع أي علامة فارقة على لوحة الرسم تحت طائلة إلغاء الامتحان.**

==========

انتهت الأسئلة

مع التمنيات بالنجاح والتوفيق

14

الجمهورية العربية السورية
وزارة التعليم العالي

العام الدراسي 2017- 2018
المدة :4 ساعات

امتحان القبول في كليات الهندسة المعمارية

السؤال الأول: (35 درجة)

ضع أمامك ثلاثة عناصر (أشياء) من أغراضك الشخصية (قلم- ممحاة – مبراة – مسطرة – نظارات – مفاتيح – محفظة جيب- ساعة يد- .....الخ) وارسمها على ورقة الإجابة بالتشكيل والطريقة التي تراها مناسبة مع التظليل بالأسود والأبيض.

السؤال الثاني: (35 درجة)

أعد رسم الصورة التي أمامك وذلك بتكبيرها وإظهارها وفق ما تراه مناسباً وبأسلوبك الخاص، مع ضرورة إظهار تأثير الظل والنور على الأسطح بواسطة التهشير وتدرجات اللون (الرمادي) مستخدماً قلم الرصاص، مع إمكانية إضافة بعض العناصر كالأشخاص والأشجار والنباتات ، وغير ذلك.

السؤال الثالث: (30 درجة)

أرسم وأظهر بالقلم الرصاص عنصراً معمارياً يعبر عن أي معلم تاريخي سوري (أي يقع ضمن أراضي الجمهورية العربية السورية) حُفظ في ذاكرتك، بحيث يتوضح من خلال الرسم التعبير عن جزء أو كل من هذا المعلم التاريخي.

ملاحظة:

- تقسم اللوحة إلى ثلاثة أقسام على وجه واحد ، ويتم رسم كل سؤال في قسمه.
- يمنع وضع أي علامة فارقة على لوحة الرسم تحت طائلة إلغاء الامتحان.

==========

انتهت الأسئلة

مع التمنيات بالنجاح والتوفيق

الجمهورية العربية السورية
وزارة التعليم العالي

العام الدراسي 2018- 2019
المدة :4 ساعات

امتحان القبول في كليات الهندسة المعمارية

السؤال الأول: (35 درجة)

تخيل وجود الحجوم الثلاثة التالية على طاولتك (كرة، مكعب، مخروط).

عبر بالرسم والتظليل عن تكوين لها بالأبعاد الثلاثة، وهي مجمعة ومتماسة أو متداخلة وبالطريقة والمقياس المناسبين.

السؤال الثاني: (35 درجة)

أعد رسم الصورة التي أمامك وذلك بتكبيرها وإظهارها وفق ما تراه مناسباً وبأسلوبك الخاص، مع ضرورة إظهار تأثير الظل والنور على الأسطح بواسطة التهشير وتدرجات اللون (الرمادي) مستخدماً قلم الرصاص، مع إمكانية إضافة بعض العناصر الطبيعية كالأشجار والنباتات وغير ذلك.



السؤال الثالث: (30 درجة)

أرسم بالاعتماد على ذاكرتك لقطة منظورية لمأذنة جامع بالطريقة والمقياس المناسبين.

ملاحظة:

- تقسم اللوحة إلى ثلاثة أقسام ويتم رسم كل سؤال في قسمه.
- يمنع وضع أي علامة فارقة على لوحة الرسم تحت طائلة إلغاء الامتحان.

==========

انتهت الأسئلة

مع التمنيات بالنجاح والتوفيق

الجمهورية العربية السورية
وزارة التعليم العالي

العام الدراسي ٢٠١٩- ٢٠٢٠
المدة :٤ ساعات

امتحان القبول في كليات الهندسة المعمارية

السؤال الأول: (٣٥ درجة)

أرسم طاولة الرسم (المرسم) التي تجلس عليها وأظهرها بالطريقة والمقياس المناسبين.

السؤال الثاني: (٣٥ درجة)

أعد رسم الصورة التي أمامك وذلك بتكبيرها وإظهارها وفق ما تراه مناسباً وبأسلوبك الخاص، مع ضرورة إظهار تأثير الظل والنور على الأسطح بواسطة التهشير وتدرجات اللون (الرمادي) مستخدماً قلم الرصاص، مع إمكانية إضافة بعض العناصر كالأشجار والنباتات.



السؤال الثالث: (٣٠ درجة)

أرسم وأظهر بالقلم الرصاص حوض نباتات حجري أو بيتوني أو خشبي حفظ في ذاكرتك موجود في أحد مداخل الأبنية أو على الأرصفة .

ملاحظة:

- تقسم اللوحة إلى ثلاثة أقسام ويتم رسم كل سؤال في قسمه.
- يمنع وضع أي علامة فارقة على لوحة الرسم تحت طائلة إلغاء الامتحان.

==========

انتهت الأسئلة

مع التمنيات بالنجاح والتوفيق

الجمهورية العربية السورية
وزارة التعليم العالي

العام الدراسي ٢٠٢٠- ٢٠٢١
المدة :٤ ساعات

امتحان القبول في كليات الهندسة المعمارية

السؤال الأول: (٣٥ درجة)

أرسم ثلاث من أدوات الرسم التي بحوزتك (أقلام، مبراة، مسطرة، مثلث، ممحاة، ...) بالتشكيل الذي تراه مناسباً مع الظلال والإظهار اللازم بالقلم الرصاص .

السؤال الثاني: (٣٥ درجة)

أعد رسم الصورة التي أمامك وذلك بتكبيرها وإظهارها وفق ما تراه مناسباً وبأسلوبك الخاص، مع ضرورة إظهار تأثير الظل والنور على الأسطح بواسطة التهشير وتدرجات اللون (الرمادي) مستخدماً قلم الرصاص، مع إمكانية إضافة بعض العناصر كالأشجار والنباتات.



السؤال الثالث: (٣٠ درجة)

أرسم وأظهر بالقلم الرصاص **عمود إنارة** حفظ في ذاكرتك موجود في أحد شوارع أو حدائق بلدتك أو مدينتك، بالطريقة والمقياس المناسبين.

ملاحظة:

- تقسم اللوحة إلى ثلاثة أقسام ويتم رسم كل سؤال في قسمه.
- يمنع وضع أي علامة فارقة على لوحة الرسم تحت طائلة إلغاء الامتحان.

==========

انتهت الأسئلة

مع التمنيات بالنجاح والتوفيق

الجمهورية العربية السورية
وزارة التعليم العالي

العام الدراسي 2021- 2022
المدة :4 ساعات

امتحان القبول في كليات الهندسة المعمارية

السؤال الأول: (35 درجة)

أرسم الكرسي الذي تجلس عليه مجرداً من كل ما يُحيط به أو فوقه مع الظلال والإظهار اللازم عن طريق التظليل بالقلم الرصاص، وبالوضعية التي تراها مناسبة.

السؤال الثاني: (35 درجة)

أعد رسم الصورة التي أمامك وذلك بتكبيرها وإظهارها وفق ما تراه مناسباً وبأسلوبك الخاص، مع ضرورة إظهار تأثير الظل والنور على الأسطح بواسطة التهشير وتدرجات اللون (الرمادي) مستخدماً قلم الرصاص، مع إمكانية إضافة بعض العناصر كالأشجار والنباتات.



السؤال الثالث: (30 درجة)

لا بد أن ذاكرتك تحتفظ بصورة كشك لبيع الجرائد والمجلات، أرسم هذا الكشك بشكل ثلاثي الأبعاد وبالطريقة التي تراها مناسبة.

ملاحظة:

- تقسم اللوحة إلى ثلاثة أقسام ويتم رسم كل سؤال في قسمه.
- يمنع وضع أي علامة فارقة على لوحة الرسم تحت طائلة إلغاء الامتحان.

==========

انتهت الأسئلة

مع التمنيات بالنجاح والتوفيق